23.03.2020

Eccomi pronta per la seconda settimana di "scuola a distanza"!

Svolgi con cura tutte le attività che seguono! Solo l'ultima è facoltativa.

Buona settimana e buon lavoro!
A presto,

Antonella

P.S.: mi dispiace ma ci sono degli errori nelle soluzioni che vi ho mandato settimana scorsa. Ecco le correzioni:

FRANCESE:

3.Vous ne tournez pas la tête ? Tournez la tête !

4.Vous ne secouez pas les mains ? Secouez les mains !

6.Vous ne dansez pas ? Dansez !

MOLTIPLICAZIONI :

75 X 124 = 9'300

Nome: …… Data: ……..

Attività 1

Settimana dal 23.03 al 27.03

☺ Scrivi l'orario indicato negli orologi analogici come nel primo esempio tenendo presente che la lancetta blu indica l'ora e la lancetta arancione i minuti.

Antimeridiane:
3:00
Pomeridiane
15:00

Antimeridiane:
:
Pomeridiane
:

Antimeridiane:
:
Pomeridiane
:

Antimeridiane:
:
Pomeridiane
:

Antimeridiane:
:
Pomeridiane
:

Antimeridiane:
:
Pomeridiane
:

Antimeridiane:
:
Pomeridiane
:

Antimeridiane:
:
Pomeridiane
:

Antimeridiane:
:
Pomeridiane
:

Antimeridiane:
:
Pomeridiane
:

Antimeridiane:
:
Pomeridiane
:

Antimeridiane:
:
Pomeridiane
:

Nome: …… Data: ……..

☺ Disegna le lancette a seconda dell'orario indicato sotto ogni orologio.

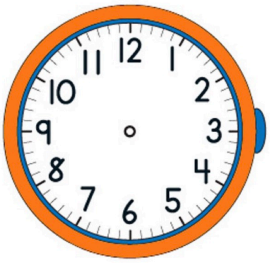

15:00



2:00

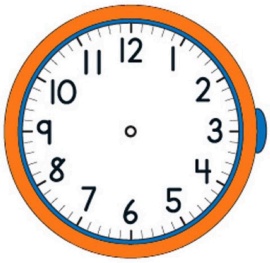

8:30

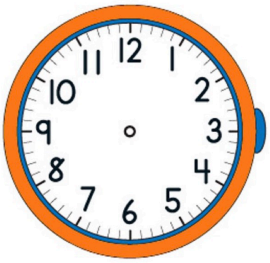

18:30

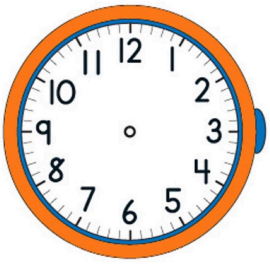

11:30



6:15



9:45



22:15



17:15

20:00



16:30



7:00



5:45



1:30



12:15



9:00

Nome: …… Data: ……..

Attività 2

Settimana dal 23.03 al 27.03

☺ Risolvi le seguenti situazioni su un foglio. Ricordati di scrivere sia i calcoli necessari per arrivare alla soluzione sia le risposte. Se hai bisogno, puoi anche aiutarti con dei disegni.

1. Un parcheggio di 5 piani è completo. Su ogni piano ci sono 65 posti auto. Quante auto ci sono nel parcheggio?
   Dopo un'ora il guardiano ne conta 287. Quante auto hanno lasciato il parcheggio?

2. Un libro ha in tutto 820 pagine e ne ho già lette 580. Quante pagine mi restano da leggere?
   Per finirlo in 6 giorni, quante pagine devo leggere ogni giorno?

3. Lorenzo possiede 116 figurine, Marco ne possiede 98 e Paolo 54. Quante figurine possiedono in tutto?
   L'album che i tre bambini vogliono completare insieme, ne contiene 324. Quante figurine mancano per terminare l'album?

4. Per i corsi di nuoto si sono formate 8 squadre, ognuna di 12 partecipanti. Quanti sono in tutto gli iscritti?
   Se i posti disponibili sono in tutto 140, quanti sono i posti liberi?

Nome: …… Data: ……..

Attività 3

Settimana dal 23.03 al 27.03

☺ Studia ogni giorno le tabelline sia con il PER che con il DIVISO.

TAVOLA PITAGORICA

x	0	1	2	3	4	5	6	7	8	9	10
0	0	0	0	0	0	0	0	0	0	0	0
1	0	1	2	3	4	5	6	7	8	9	10
2	0	2	4	6	8	10	12	14	16	18	20
3	0	3	6	9	12	15	18	21	24	27	30
4	0	4	8	12	16	20	24	28	32	36	40
5	0	5	10	15	20	25	30	35	40	45	50
6	0	6	12	18	24	30	36	42	48	54	60
7	0	7	14	21	28	35	42	49	56	63	70
8	0	8	16	24	32	40	48	56	64	72	80
9	0	9	18	27	36	45	54	63	72	81	90
10	0	10	20	30	40	50	60	70	80	90	100

ESEMPI:
6 x 7 = 42
30 : 5 = 6

Nome: …… Data: ……..

☺ Completa la tabella.

X	8	3	5	9	2	10	7	4	1	6
2		6				20				
7			35						7	
4								16		
6						60				
9					18					
1	8									
5				45						
8									8	
10	80				20					
3						30				

☺ Per allenarti puoi trovare dei giochi su www.tabelline.it oppure puoi stampare il seguente gioco.

Nome: …… Data: ……..

TABELLINE SULLA LUNA

Materiale occorrente:
Procurarsi un dado a 6 facce, oppure costruirselo e 2 segnaposto di piccole dimensioni, uno per ogni giocatore.

Preparazione:
Stampare i due fogli con il percorso, unirli in modo che diventino un unico percorso e incollarli su cartoncino. Fare la stessa cosa con le carte-domanda (tabelline) che serviranno per fare le domande di gioco e controllare le risposte.

Come si gioca:
Iniziare sistemando i segnapunti su «PARTENZA»
Ogni giocatore tira il dado per determinare chi andrà per primo. Il giocatore con il numero più alto sarà il primo.
Il primo giocatore tira il dado e si sposta in base al numero che è uscito. Se finisce su una casella con una scritta, deve seguire le istruzioni.
Il secondo giocatore prende una carta-domanda e legge ad alta voce all'altro giocatore che deve cercare di rispondere. Se la risposta è corretta rimane sulla sua casella, altrimenti deve tornare indietro all'inizio del gioco.
Poi è il turno del secondo giocatore lanciare il dado e rispondere a una domanda.
Continuare a turno fino a quando uno dei due giocatori raggiunge l'atterraggio sulla Luna Il primo giocatore che vi sbarca e risponde correttamente alla domanda vince.

Ricorda:
Se un giocatore atterra sulla casella che dice: "Hai trovato una scorciatoia! "può attraversare il campo di asteroidi e spostarsi più avanti, se invece un giocatore finisce su "perdere un turno," sta fermo un giro.



Nome: …… Data: ……..

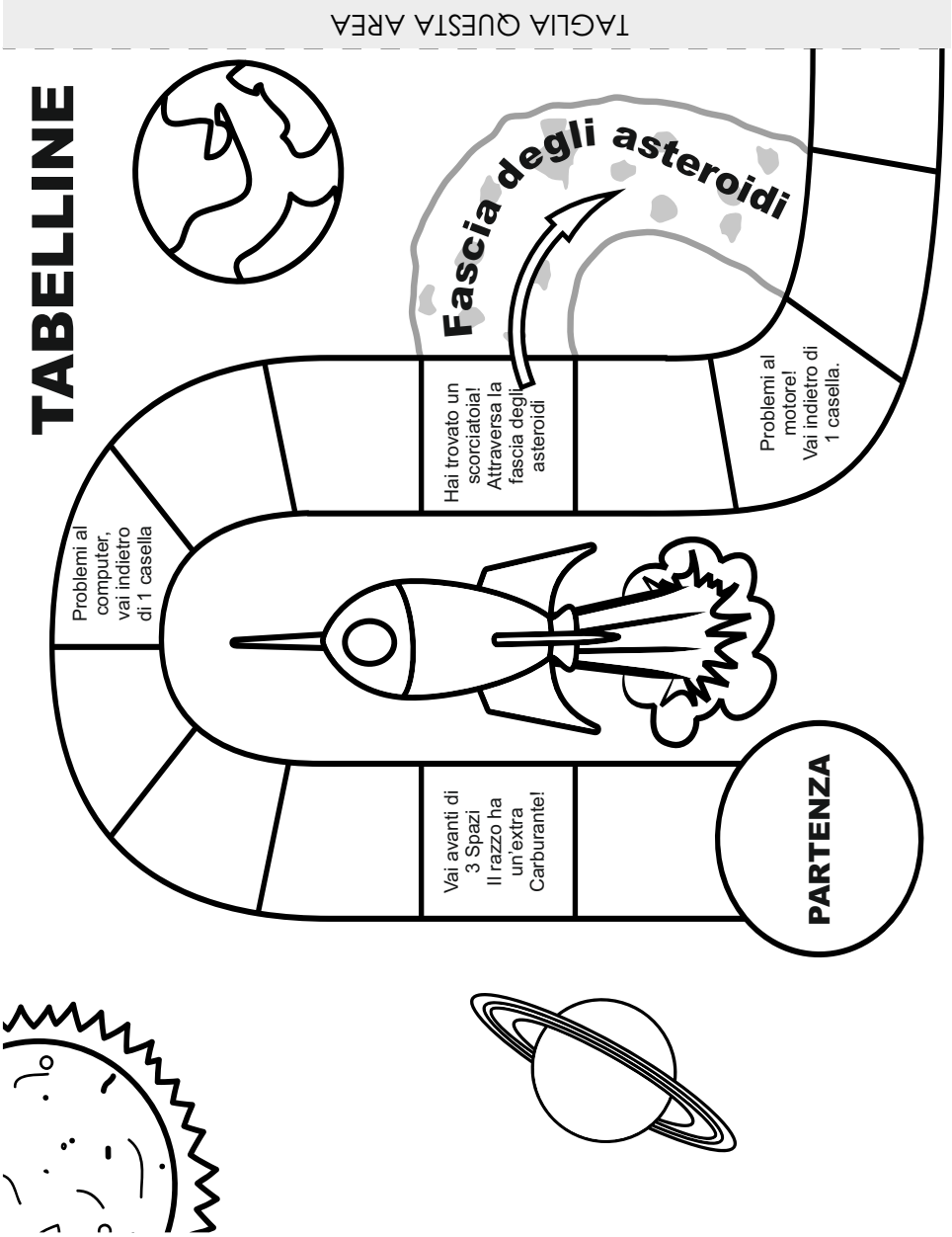
TABELLINE
Problemi al computer, vai indietro di 1 casella
Vai avanti di 3 Spazi Il razzo ha un'extra Carburante!
PARTENZA
Hai trovato un scorciatoia! Attraversa la fascia degli asteroidi
Fascia degli asteroidi
Problemi al motore! Vai indietro di 1 casella.
TAGLIA QUESTA AREA

Nome: …… Data: ……..

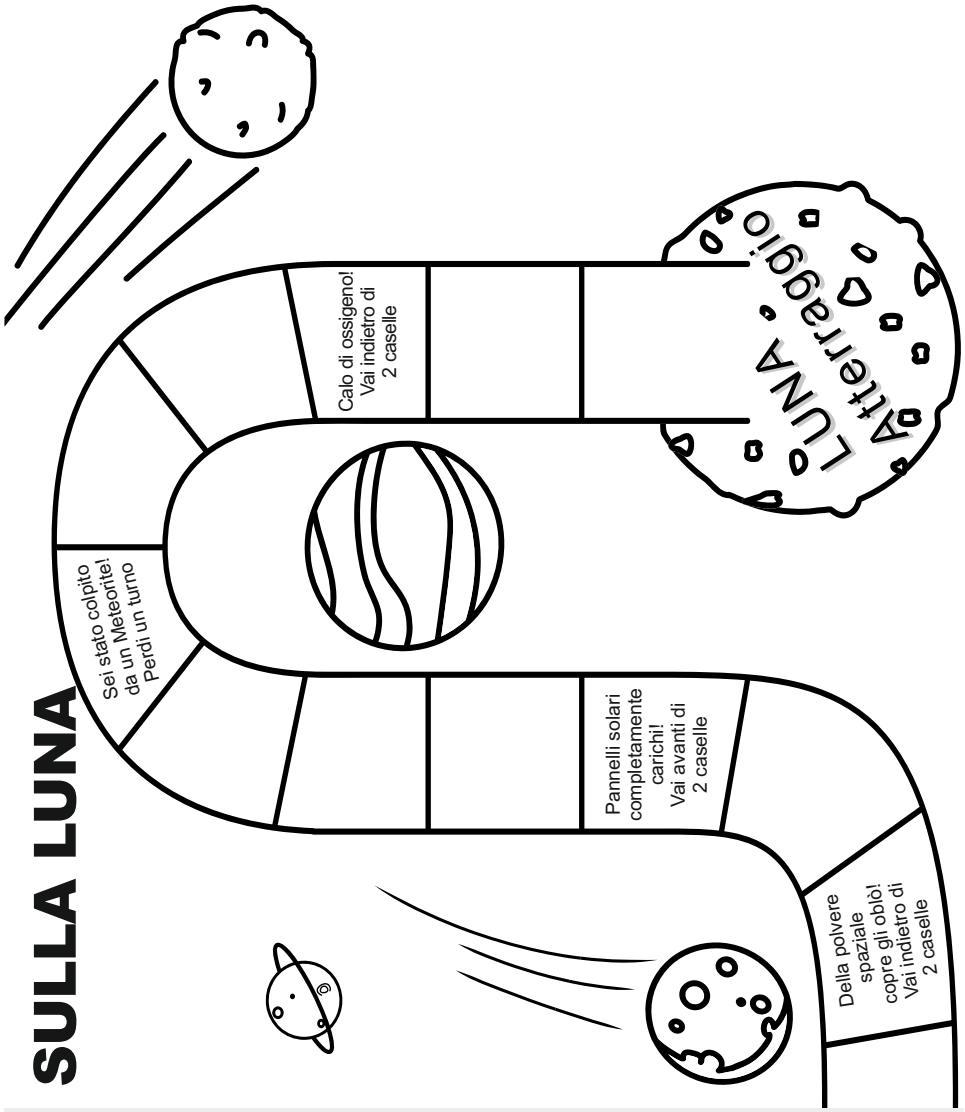

INCOLLA IN QUESTA AREA LA PAGINA 1

Nome: …… Data: ……..

3x7 21	2x8 16	5x6 30	3x3 9	4x5 20	4x7 28
3x4 12	9x8 72	5x3 15	6x6 36	7x3 21	4x8 32
6x7 42	4x6 24	9x5 45	6x9 54	3x6 18	8x8 64

Nome: …… Data: ……..

9x9 81	4x4 16	9x2 18	6x8 48	5x5 25	4x9 36
1x0 0	7x4 28	7x5 35	8x5 40	3x7 21	2x7 14
6x2 12	7x7 49	5x1 5	5x6 30	5x7 35	3x8 24

Nome: …… Data: ……..

Attività 4

Settimana dal 23.03 al 27.03

IL CAVALLO

Nella prateria il cavallo galoppa felice con la criniera al vento. Corre come un fulmine bianco, sfiorando leggero l'erba con gli zoccoli. Lentamente rallenta. Affonda il muso nell'erba fragrante e inizia a mangiare, soddisfatto.

Che magnifico animale, che grazia, che armonia ha. Il suo corpo è perfetto e non mi stancherò mai di ammirarlo nel suo ambiente naturale!

☺ Trascrivi il testo su un foglio come se tu stessi osservando tanti cavalli.

Es.: Nella prateria i cavalli galoppano…

I PATTINI

Quell'anno Gianni e Franco fra i regali di Natale trovarono due paia di lucentissimi pattini. Che gioia, ma come utilizzarli? Non c'erano piste di pattinaggio e il lago era molto lontano.

I due ragazzi d'un tratto ebbero un'idea! Salirono in solaio, prepararono del cemento, chiusero tutte le fessure e poi aprirono i rubinetti.

L'acqua invase lo stanzone e cominciò a salire…

☺ Sottolinea i verbi al passato e trascrivi il testo su un foglio al presente.

Nome: …… Data: ……..

Attività 5

Settimana dal 23.03 al 27.03

☺ Lis les listes de courses et écris le prénom correspondant sous chaque dessin !

cinq crayons
deux gommes
un stylo
une règle
un livre
des billes

Ivan

deux livres
un stylo
une règle
une poupée
une gomme
six crayons

Paola

deux stylos
~~quatre~~ trois crayons
un robot
deux gommes
des billes
une règle

Arthur

1

2

3

…… …… ……

☺ Regarde bien et réponds « oui » ou « non » !

1 C'est une affiche pour un film ? ☐ oui ☐ non

2 C'est une affiche pour un zoo ? ☐ oui ☐ non

3 Il y a des éléphants ? ☐ oui ☐ non

4 Il y a des dauphins ? ☐ oui ☐ non

5 Il y a des tigres ? ☐ oui ☐ non

6 Il y a des ours ? ☐ oui ☐ non

Nome: …… Data: ……..

Attività FACOLTATIVA

Settimana dal 23.03 al 27.03

IL NOSTRO NOME COME PAUL KLEE

"Dapprima innalzatosi dal grigiore della notte" – 1918

1. Prendendo spunto da quest'opera di Paul Klee e utilizzando il reticolo allegato, scrivi il tuo nome e cognome e aggiungi a piacere alcune forme, simboli o altre parole che ti rappresentano.



2. Con le matite colorate dipingi il disegno alternando i colori e cercando di rendere la tua opera allegra e vivace.

Nome: …… Data: ……..

3. Alla fine del lavoro ripassa le lettere, i simboli, le forme e la cornice esterna con un pennarello nero.

Nome: …… Data: ……..